1. निम्न में से किस विकल्प में केवल 'प्रत्यय' का ही प्रयोग किया गया है?

(A) अपरिग्रह, अपोढ, पराश्रित
(B) रासायनिक, पाशविक, काल्पनिक
(C) पराधीन, अनूदित, अनुवाद
(D) वैनाशिक, आक्षेपित, आधिपत्य

2. 'We have taken our breakfast.'

उक्त वाक्य का सटीक हिंदी रूपांतरण है –

(A) हमने नाश्ता रख लिया है।
(B) हम नाश्ता ले कर गए थे।
(C) हमने नाश्ता कर लिया था।
(D) हमने नाश्ता कर लिया है।

3. निम्नलिखित सामासिक पदों को उनके सामासिक भेद के साथ सुमेलित कीजिए –

सामासिक पद	सामासिक भेद
(i) शताब्दी, अठन्नी, सतसई	(क) अव्ययीभाव समास
(ii) नीरव, अनुगुण, अत्याचार	(ख) द्विगु समास
(iii) लताच्छादित, आनन्दमय, कनकदा	(ग) तत्पुरुष समास
(iv) शुभावसर, नवांकुर, चरमसीमा	(घ) कर्मधारय समास

(A) (i)-ख, (ii)-क, (iii)-घ, (iv)-ग
(B) (i)-ख, (ii)-ग, (iii)-घ, (iv)-क
(C) (i)-घ, (ii)-क, (iii)-ग, (iv)-ख
(D) (i)-ख, (ii)-क, (iii)-ग, (iv)-घ

4. 'अपत्यवाचक तद्धित प्रत्यय' से निर्मित शब्द किस विकल्प में नहीं है?

(A) आंजनेय
(B) मार्कंडेय
(C) पौर्वात्य
(D) मागध

5. 'एक पानी का गिलास लाओ' वाक्य में किस प्रकार की अशुद्धि है?

(A) वचन संबंधिनी
(B) लिंग संबंधिनी
(C) कारक संबंधिनी
(D) अव्यय संबंधिनी

6. विलोम शब्द की दृष्टि से कौनसा युग्म अनुचित है?

(A) असीम – ससीम
(B) ऐहिक – पारलौकिक
(C) अतिवृष्टि – बहुवृष्टि
(D) अतिथि – आतिथेय

7. निम्नलिखित में से किस विकल्प के सभी शब्द 'माता' के पर्यायवाची हैं?

(A) सुरा, वारुणी, हाला
(B) कान्ता, दारा, अर्धांगिनी
(C) स्वसा, वामा, सोदरा
(D) प्रसू, अम्बिका, जननी

8. समास के संबंध में असंगत कथन है –

(A) जहाँ प्रथम पद निषेध का वाचक हो उसे 'नञ् तत्पुरुष' समास कहते हैं।
(B) कर्मधारय विशेषण – विशेष्य का समास होता है।
(C) अधिकरण तत्पुरुष के समस्त पदों में अधिकरण कारक चिह्न 'में, पे, पर' का प्रयोग होता है।
(D) समस्त पद बनाते समय समास में प्रथम पद के साथ विभक्ति चिह्न का लोप किया जाता है।

9. 'समुद्रोर्मि' का सही संधि–विच्छेद क्या है?

(A) समुद्रः + ऊर्मि

(B) समुद्र + ऊर्मि

(C) समुद्र + ओर्मि

(D) समुद्र + उर्मि

10. निम्नलिखित सूची–I के मुहावरों को सूची–II में उनके अर्थ के साथ सुमेलित कीजिए –

सूची–I	सूची–II
(A) आंख का नीर ढल जाना	(1) अनुभवहीन व्यक्ति
(B) अंडे का शहजादा	(2) व्यर्थ की लिखा पढ़ी करना
(C) निन्यानवे के फेर में पड़ना	(3) निर्लज्ज हो जाना
(D) कागज़ी घोड़े दौड़ाना	(4) धन कमाने में लगे रहना

(A) (A)-3, (B)-1, (C)-4, (D)-2

(B) (A)-4, (B)-3, (C)-2, (D)-1

(C) (A)-3, (B)-2, (C)-4, (D)-1

(D) (A)-1, (B)-2, (C)-3, (D)-4

11. विसर्ग संधि से निर्मित शब्द समूह नहीं है –

(A) अवश्यम्भावी, आबालवृद्ध, मनोनुसार

(B) यशोधरा, पुनरुक्ति, अतएव

(C) शिरोभाग, वयोवेग, तेजोबल

(D) श्रेयस्कर, चन्द्रस्तम, पुनः प्राप्ति

12. किस विकल्प के सभी शब्द 'स' उपसर्ग से निर्मित हैं?

(A) सदय, सकाम, सावकाश, सजीव

(B) सहित, सहकर्ता, सार्थक, सज्जन

(C) सद्भावना, सहायक, सहोदर, सहगमन

(D) सोल्लास, सत्क्रिया, सद्भाव, सहपाठी

13. किस विकल्प में वार्तनिक दृष्टि से अशुद्ध शब्द प्रयुक्त हुए हैं?

(A) शिरोधार्य, अन्तर्धान

(B) पूज्यनीय, प्रमाणिक

(C) मध्याह्न, भौगोलिक

(D) कृतज्ञ, नीरोग

14. निम्न में से कौन–सा यण् स्वर संधि का उदाहरण नहीं है?

(A) न्यून

(B) अन्वय

(C) पित्रादेश

(D) स्वांग

15. 'गंधसार, मलयज, श्रीखण्ड' उक्त सभी शब्द पर्याय हैं –

(A) चंदन के

(B) नाव के

(C) मोर के

(D) मेंढक के

16. निम्नलिखित में से कौन–सा 'उर्वर' का विलोम है?

(A) फ़लप्रद

(B) जरखेज

(C) उपजाऊ

(D) ऊसर

17. पर्यायवाची शब्दों के संबंध में असंगत युग्म पहचानिए –

(A) झंडा – केतन, वैजयंती, निशान

(B) जंगल – विपिन, कांतार, गहन

(C) सेना – अराति, अरि, वाहिनी

(D) पुत्र – वत्स, आत्मज, तनय

18. शुद्ध वर्तनी वाला विकल्प चुनिए –

(A) उनचालीस, इकत्तीस

(B) पचत्तर, पच्चासी

(C) नो, चोंतीस

(D) इक्यावन, तिरपन

19. निम्नलिखित सूची–I की लोकोक्तिओं को सूची–II में उनके अर्थ के साथ सुमेलित कीजिए –

सूची–I

(a) गंगा गए गंगादास, जमुना गए जमुनादास

(b) दाल भात में मूसलचंद

(c) पहले भीतर तब देवता–पितर

(d) सब धान बाईस पसेरी

सूची–II

(1) व्यर्थ में दखल देने वाला

(2) जिसका कोई दृढ़ सिद्धांत नहीं होता

(3) अच्छे–बुरे सबको एक समझना

(4) पेट पूजा सबसे प्रधान

(A) (a)-2, (b)-4, (c)-1, (d)-3

(B) (a)-2, (b)-1, (c)-4, (d)-3

(C) (a)-1, (b)-3, (c)-4, (d)-2

(D) (a)-3, (b)-4, (c)-1, (d)-2

20. किस विकल्प में अंग्रेजी पारिभाषिक शब्द का समकक्ष हिन्दी पारिभाषिक शब्द सही है?

(A) Departmental Negligence – विभागीय जांच

(B) Denial – तरक्की

(C) Deviate – अहित

(D) Decree – हुक़्मनामा

21. निम्नलिखित सूची–I के वाक्यांशों को सूची–II के शब्दों के साथ सुमेलित कीजिए –

सूची–I

(a) नीचे की ओर लाना या खींचना

(b) जो बिना बुलाए आया हो

(c) किसी वस्तु को प्राप्त करने की तीव्र इच्छा

(d) गुरु के समीप रहने वाला विद्यार्थी

सूची–II

(i) अनादूत

(ii) अन्तेवासी

(iii) अपकर्ष

(iv) अभीप्सा

(A) (a)-i, (b)-iii, (c)-iv, (d)-ii

(B) (a)-iii, (b)-iv, (c)-ii, (d)-i

(C) (a)-i, (b)-ii, (c)-iii, (d)-iv

(D) (a)-iii, (b)-i, (c)-iv, (d)-ii

22. संधि की दृष्टि से कौनसा युग्म अनुचित है?

(A) मात्रिच्छा – यण् स्वर संधि

(B) मनश्चिकित्सा – विसर्ग संधि

(C) तल्लीन – व्यंजन संधि

(D) स्वागत – दीर्घ स्वर संधि

23. व्याकरण की दृष्टि से निम्न में से कौनसा शुद्ध वाक्य है?

(A) वह बड़ा अच्छा खिलाड़ी है।

(B) भोपाल में अनेक तालाब हैं।

(C) माता जी का मन गद्‌गद हो गया।

(D) समय के साथ शब्द लोप हो जाते हैं।

24. कौन से शब्द युग्म का अर्थ भेद सही है?

(A) कृति–कृती – निपुण–रचना

(B) डीठ–ढीठ – निडर–दृष्टि

(C) तरणि–तरुणी – युवती–सूर्य

(D) अयश–अयस – अपकीर्ति–लोहा

Read the passage carefully and answer the questions given below –

The choice we make on a daily basis – wearing a seatbelt, lifting heavy objects correctly or purposely staying out of any dangerous situation – can either ensure our safety or bring about potentially harmful circumstances.

You and i need to make a decision that we are going to get our lives in order. Exercising self-control, self-discipline and establishing boundaries and borders in our lives are some of the most important things we can do. A life without discipline is one that's filled with carelessness.

We can think it's kind of live life on the edge. We like the image of "Yeah! that's me! Living on the edge! Woo-hoo!" It's become a popular way to look at life. But if you see, even highways have lines, which provide margins for our safety while we're driving. If we go over one side, we'll go into the ditch. If we cross over the line in the middle, we could get killed. And we like those lines because they help to keep us safe. Sometimes we don't even realize how lines help to keep us safe.

25. The phrase "Potentially harmful circumstances" refers to circumstances that can -

(A) Certainly be dangerous
(B) Be fairly dangerous
(C) Be possibly dangerous
(D) Seldom be dangerous

26. What does the author mean when he says, "To get our lives in order"?

(A) To resume our lives
(B) To organize our lives
(C) To rebuild our lives
(D) To control our lives

27. Synonym of the word 'carelessness' is -

(A) caution
(B) laxness
(C) vigilance
(D) heedfulness

28. Match the sentences in column (A) with appropriate prepositions in column (B) –

Column-(A)	Column-(B)
(a) My mother is afraid ..... cats.	(i) for
(b) If you want permission you must apply ....to..... the Principal.	(ii) of
(c) We must all pray ..... peace.	(iii) at
(d) The crowd threw stones .....at..... the police.	(iv) to

(A) a–(ii), b–(iv), c–(iii), d–(i)
(B) a–(iii), b–(ii), c–(iv), d–(i)
(C) a–(ii), b–(iv), c–(i), d–(iii)
(D) a–(i), b–(iii), c–(iv), d–(ii)

29. Choose the appropriate alternative from the given options that comes closest to the idea conveyed by the sentence-

"You must be back within two hours."

(A) You are likely to be back within two hours.
(B) You are obliged to be back within two hours.
(C) You have the option to be back within two hours.
(D) You have to be back within two hours.

30. Fill in the blank with the correct option –

They know that extremists blew up the bridge. (Change into Passive voice)

(A) They know that the bridge was blew up by extremists.
(B) It is known that the extremists blown up the bridge.
(C) It is known that the bridge was blown up by the extremists.
(D) It is known that the bridge would be blown up by the extremists.

31. Which set of words fits well into the given sentence?

He pretended to fall ..... my plan but secretly he was working against it.

(A) off through
(B) in for
(C) in with
(D) into by

32. What is the correct sequence of phrases –

this document (P)/ as proof of his guilt (Q)/can we take (R)/ on the table (S)

(A) RSPQ
(B) PSRQ
(C) RPSQ
(D) QPRS

RPSQ

33. Which of the following is not the meaning of 'bound'?
(A) to build a boundary
(B) to spring or leap
(C) to be restrained by a material such as rope
(D) to be controlled by a condition or law

34. Match the words in column I to their antonyms in column II –

Column-I	Column-II
(a) conceal	(i) ascetic
(b) hedonist	(ii) permanent
(c) hackneyed	(iii) reveal
(d) ephemeral	(iv) original

(A) a-(iv), b-(i), c-(iii), d-(ii)
(B) a-(iv), b-(iii), c-(i), d-(ii)
(C) a-(iii), b-(iv), c-(i), d-(ii)
(D) a-(iii), b-(i), c-(iv), d-(ii)

35. In the sentence – "Kalidas is the Shakespeare of India." - the definite article 'the' is used because -
(A) 'Shakespeare' is a proper noun used as a comparative.
(B) 'Shakespeare' is a singular noun used to make general statement.
(C) 'Shakespeare' is an adjective.
(D) 'Shakespeare' is a pronoun.

36. Choose the correct option –
He said, "My wife leaves for Vienna tomorrow". (Change into indirect speech)
(A) He said that his wife have to leave for Vienna the next day.
(B) He said that his wife would leave for Vienna the next day.
(C) He said that his wife has to leave for Vienna tomorrow.
(D) He said that his wife had to leave for Vienna tomorrow.

37. The correct form of words in the brackets are –
We suggested (sleep) in hotels but the children were anxious (camp) out.
(A) to sleep, To camp
(B) for sleep, about camp
(C) sleeping, to camp
(D) that we sleep, camped

38. Match words in column I with their meanings in column II -

Column-I	Column-II
(a) incongruous	(i) recover quickly from difficult situation
(b) resilient	(ii) one who knows everything
(c) obsolete	(iii) that which is no longer in use
(d) omniscient	(iv) strange and out of place

(A) a-(i), b-(ii), c-(iii), d-(iv)
(B) a-(iv), b-(i), c-(iii), d-(ii)
(C) a-(iv), b-(iii), c-(ii), d-(i)
(D) a-(iv), b-(ii), c-(iii), d-(i)

39. Choose the part of the sentence you think is incorrect in the given sentence -
Nehru was one of the greatest statesmen who has led the Non-aligned Movement.
(A) Nehru was
(B) One of the greatest statesmen
(C) Who has led
(D) The Non-aligned Movement

40. Match the idioms in column I with their meanings in column II –

Column-I	Column-II
(i) Call it a day	(a) saying good luck to someone
(ii) Feeling under the weather	(b) to leak a secret
(iii) Spill the beans	(c) not very well
(iv) Break a leg	(d) to stop work or another activity

(A) i-(c), ii-(d), iii-(b), iv-(a)
(B) i -(d), ii-(c), iii-(b), iv-(a)
(C) i-(a), ii-(c), iii-(b), iv-(d)
(D) i-(d), ii-(c), iii-(a), iv-(b)

41. A shopkeeper marks 10% more rate on bicycle than purchase value. He gives 10% rebate on marked value of bicycle to a customer, then on selling the bicycle the shopkeeper will be in -

(A) Profit (B) Loss

(C) Nether profit nor loss (D) Can't say

41. एक दुकानदार एक साइकिल के अंकित मूल्य को क्रय मूल्य से 10% बढ़ाकर लिखता है। वह पुनः किसी ग्राहक को अंकित मूल्य पर 10% की छूट देता है, तो दुकानदार द्वारा साइकिल बेचने पर उसको –

(A) लाभ होगा (B) हानि होगी

(C) न तो लाभ होगा न ही हानि होगी (D) कुछ कहा नहीं जा सकता है

42. P and Q started a business together and got profit in the ratio of 3:5. If Q invested Rs. 80,000 for 12 months, then P invested Rs. 72,000 for how many months?

(A) 10 months (B) 6 months

(C) 8 months (D) 9 months

42. P और Q ने एक साथ एक व्यवसाय प्रारम्भ किया और 3:5 के अनुपात में लाभ प्राप्त किया। यदि Q ने 12 माह के लिए 80,000 रुपये निवेश किया, तो P ने 72,000 रुपये कितने माह के लिए निवेश किया?

(A) 10 माह (B) 6 माह

(C) 8 माह (D) 9 माह

43. A tangent PQ at point P of a circle of radius 5cm meets a line passing through center O at a point Q so that OQ = 12cm. Length of PQ will be -

(A) 13 cm (B) 8.5 cm

(C) $\sqrt{119}$ cm (D) 12 cm

43. 5 सेमी. त्रिज्या वाले एक वृत्त के बिन्दु P पर स्पर्श रेखा PQ केन्द्र O से जाने वाली एक रेखा से बिन्दु Q पर इस प्रकार मिलती है कि OQ = 12 सेमी.। PQ की लंबाई होगी –

(A) 13 सेमी. (B) 8.5 सेमी.

(C) $\sqrt{119}$ सेमी. (D) 12 सेमी.

44. In the given figure, CE is the bisector of ∠ACD. If ∠A = 55° and AB = BC, then ∠ACE = ...

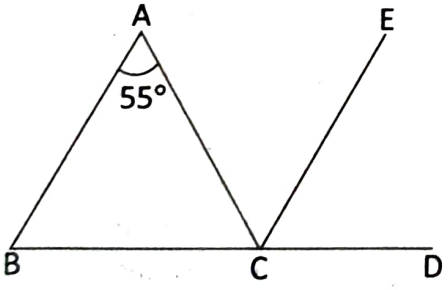

(A) 35° (B) 45°

(C) 55° (D) 62.5°

44. दिए गए चित्र में CE, ∠ACD का समद्विभाजक है। यदि ∠A = 55° और AB = BC, तो ∠ACE = ...

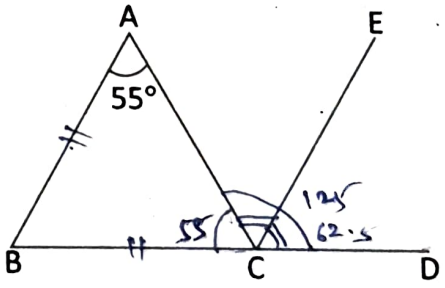

(A) 35° (B) 45°

(C) 55° (D) 62.5°

45. Decimal value of $\frac{13}{5^3}$ will be -

(A) 10.104 (B) 0.104

(C) 9.104 (D) 1.104

45. $\frac{13}{5^3}$ का दशमलव मान कितना होगा –

(A) 10.104 (B) 0.104

(C) 9.104 (D) 1.104

46. Population of a city is 1,00,000. First year it is increased by 5%, second year decreased by 8% and in the third year increased by 3%. After three years, population of the city is -

(A) 96,600 (B) 99,498

(C) 98,448 (D) 84,000

47. What is the average age of children in the class?

Statement : I. The age of the teacher is as many years as the number of children.

II. Average age is increased by 1 year if the teacher's age is also included.

(A) Both statement I and II are not sufficient to answer

(B) Statement II alone is sufficient but I alone not is sufficient to answer

(C) Statement I alone is sufficient but II alone is not sufficient to answer

(D) Either statement I or II alone sufficient to answer

48. Average present age of Ritu and Priya is 22. After 8 years, ratio b/w Priya's age to Ritu's age is 7 : 8, then find the ratio of Ritu's age to Priya's age two years ago.

(A) 8 : 7 (B) 9 : 7

(C) 12 : 11 (D) 11 : 9

49. The greatest length of the scale that can measure exactly 30 cm, 90 cm, 1 m 20 cm and 1 m 35 cm lengths is -

(A) 10 cm (B) 30 cm

(C) 15 cm (D) 5 cm

46. एक शहर की जनसंख्या 1,00,000 है। इसमें प्रथम वर्ष 5% की वृद्धि, द्वितीय वर्ष में 8% की कमी तथा तृतीय वर्ष में 3% की वृद्धि हुई। तीन वर्ष बाद शहर की जनसंख्या है –

(A) 96,600 (B) 99,498

(C) 98,448 (D) 84,000

47. कक्षा में बच्चों की औसत आयु क्या है?

कथन : I. शिक्षक की आयु बच्चों की संख्या के बराबर वर्ष है।

II. यदि शिक्षक की आयु को भी शामिल कर लिया जाए, तो औसत आयु में 1 वर्ष की वृद्धि हो जाती है।

(A) कथन I और II दोनों उत्तर देने के लिए पर्याप्त नहीं हैं

(B) कथन II अकेला पर्याप्त है लेकिन I अकेला उत्तर देने के लिए पर्याप्त नहीं है

(C) कथन I अकेला पर्याप्त है लेकिन अकेला II उत्तर देने के लिए पर्याप्त नहीं है

(D) या तो कथन I या II अकेले उत्तर देने के लिए पर्याप्त है

48. रितु और प्रिया की वर्तमान आयु का औसत 22 है । 8 वर्षों के बाद, प्रिया और रितु की आयु का अनुपात 7 : 8 है, तो 2 वर्ष पहले रितु की आयु का प्रिया की आयु से अनुपात क्या होगा?

(A) 8 : 7 (B) 9 : 7

(C) 12 : 11 (D) 11 : 9

49. 30 सेमी., 90 सेमी., 1 मीटर 20 सेमी. और 1 मीटर 35 सेमी. लंबाई मापने वाले पैमाने की सबसे बड़ी लंबाई है –

(A) 10 सेमी. (B) 30 सेमी.

(C) 15 सेमी. (D) 5 सेमी.

50. A work may be completed in 10 days, if X, Y and Z work together. All three started to work together. X left after 4 days, then Y and Z completed the work by taking 10 more days. In how many days could X complete the whole work alone?

(A) 25 days (B) 30 days

(C) 35 days (D) 15 days

51. If least common multiple of two numbers is 225 and the highest common factor is 5, then find the numbers when one of the numbers is 25?

(A) 45 (B) 75

(C) 65 (D) 15

52. A friend says to other "Give me hundred rupees friend! I shall then become twice as rich as you." Other replies, "If you give me ten rupees, I shall be six times as rich as you." How much rupees both have respectively?

(A) ₹ 30, ₹ 170 (B) ₹ 40, ₹ 170

(C) ₹ 50, ₹ 170 (D) ₹ 140, ₹ 170

53. L.C.M. of $(q^2 + 3q)$, $(q^2 + 5q + 6)$ and $(q^2 + 4q + 3)$ is equal to -

(A) $q\,(q + 3)\,(q + 2)\,(q + 1)$

(B) $(q - 3)$

(C) $q\,(q + 3)$

(D) $q\,(q + 3)\,(q + 2)$

54. A Scooty is available for ₹ 50,000 cash or ₹ 10,400 cash down payments followed by 4 equal annual installments. If the rate of simple interest is 25% per annum, amount of each year installment is -

(A) ₹ 14,600 (B) ₹ 14,400

(C) ₹ 14,800 (D) ₹ 15,000

50. यदि X, Y और Z मिलकर कार्य करें, तो एक कार्य 10 दिन में पूर्ण हो सकता है। तीनों ने एक साथ मिलकर कार्य शुरू किया। 4 दिन बाद X चला गया, तो शेष कार्य को Y और Z ने 10 और अधिक दिन लेकर पूर्ण किया। X अकेला सम्पूर्ण कार्य को कितने दिन में पूरा कर सकता था?

(A) 25 दिन (B) 30 दिन

(C) 35 दिन (D) 15 दिन

51. यदि दो संख्याओं का लघुत्तम समापवर्तक 225 है और उच्चतम उभयनिष्ठ गुणनखंड 5 है, तो वे संख्याएँ ज्ञात कीजिए जिनमें से एक संख्या 25 है?

(A) 45 (B) 75

(C) 65 (D) 15

52. एक मित्र दूसरे से कहता है कि, "यदि तुम मुझे एक सौ रुपये दे दो, तो मैं तुमसे दो गुना धनी हो जाऊंगा" दूसरा उत्तर देता है कि "यदि तुम मुझे दस रुपये दे दो, तो मैं तुमसे छः गुना धनी हो जाऊंगा"। दोनों के पास क्रमशः कितने रुपये हैं?

(A) 30 ₹, 170 ₹ (B) 40 ₹, 170 ₹

(C) 50 ₹, 170 ₹ (D) 140 ₹, 170 ₹

53. $(q^2 + 3q)$, $(q^2 + 5q + 6)$ और $(q^2 + 4q + 3)$ का लघुत्तम समापवर्तक बराबर है –

(A) $q\,(q + 3)\,(q + 2)\,(q + 1)$

(B) $(q - 3)$

(C) $q\,(q + 3)$

(D) $q\,(q + 3)\,(q + 2)$

54. एक स्कूटी 50,000 ₹ नगद अथवा 10,400 ₹ नगद डाउन पेमेंट पर चार बराबर वार्षिक किश्तों के साथ उपलब्ध है। यदि सकल ब्याज की दर 25% वार्षिक है, तो प्रत्येक वार्षिक किश्त की राशि है –

(A) 14,600 ₹ (B) 14,400 ₹

(C) 14,800 ₹ (D) 15,000 ₹

123136779

55. A boat coves 30km upstream and 44km downstream in 10 hours. Again covers 40km upstream and 55 km downstream in 13 hours. Speed of boat in still water will be –

(A) 8 km/h (B) 18 km/h
(C) 3 km/h (D) 5 km/h

55. एक नाव धारा के प्रतिकूल 30 कि.मी. तथा धारा के अनुकूल 44 कि.मी., 10 घण्टे में जाती है। पुनः 13 घण्टे में धारा के प्रतिकूल 40 कि.मी. तथा धारा के अनुकूल 55 कि.मी. जाती है। नाव की स्थिर पानी में चाल ज्ञात कीजिए –

(A) 8 कि.मी. / घण्टा (B) 18 कि.मी. / घण्टा
(C) 3 कि.मी. / घण्टा (D) 5 कि.मी. / घण्टा

56. In the given figure the value of x equals-

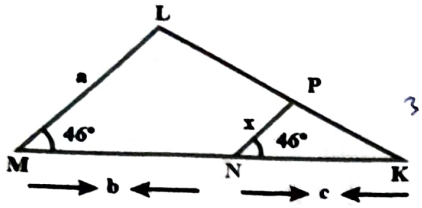

(A) $\frac{ac}{b+c}$ (B) $\frac{ac}{a+b}$
(C) $\frac{ab}{b+c}$ (D) $\frac{ab}{a+c}$

56. दिए गए चित्र में x का मान कितना होगा?

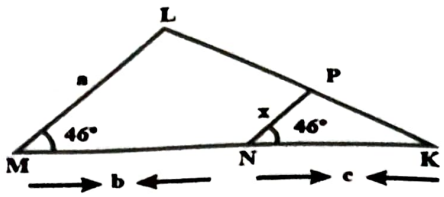

(A) $\frac{ac}{b+c}$ (B) $\frac{ac}{a+b}$
(C) $\frac{ab}{b+c}$ (D) $\frac{ab}{a+c}$

57. The batting average of a batsman in 40 innings is 50 runs. His highest score is 172 more than his lowest score. If his highest and lowest scores are excluded, then average of remaining 38 innings is 48 runs. Highest score of batsman in one innings is-

(A) 170 runs (B) 174 runs
(C) 172 runs (D) 166 runs

57. एक बल्लेबाज का 40 पारियों में बल्लेबाजी का औसत 50 रन है। उसका उच्चतम स्कोर उसके न्यूनतम स्कोर से 172 रन अधिक है। यदि उसके उच्चतम और न्यूनतम स्कोर हटा दिए जाते हैं, तो बाकी 38 पारियों का औसत 48 रन होता है। बल्लेबाज का उच्चतम स्कोर है –

(A) 170 रन (B) 174 रन
(C) 172 रन (D) 166 रन

58. A two digit number gets reversed when 1/5th of it is added to it. Find the 40% of that number.

(A) 36 (B) 32
(C) 20 (D) 18

58. एक दो–अंकीय संख्या उलट जाती है जब उस संख्या का (1/5) वां भाग इसमें जोड़ा जाता है। उस संख्या का 40% ज्ञात कीजिए।

(A) 36 (B) 32
(C) 20 (D) 18

59. In an examination, 33% marks are required to get pass. A candidate receives 238 marks and gets failed by 26 marks. Maximum marks of examination is -

(A) 900 (B) 800
(C) 600 (D) 700

59. एक परीक्षा में उत्तीर्ण होने के लिए 33% अंक आवश्यक हैं। एक अभ्यर्थी 238 अंक प्राप्त करता है और 26 अंकों से अनुत्तीर्ण हो जाता है। परीक्षा के अधिकतम अंक हैं –

(A) 900 (B) 800
(C) 600 (D) 700

60. Radius of a hemispherical bowl is 3cm. Find volume of water that can be filled in the bowl.

(A) 72π cm^3 (B) 18π cm^3

(C) 9π cm^3 (D) 36π cm^3

61. How much compound interest will be paid by a person for loan of ₹ 700 at the rate of 4% annual compound interest for 3 years?

(A) ₹ 84 (B) ₹ 87.40

(C) ₹ 124 (D) ₹ 28

62. In given figure, O is the centre of the circle and ACBO is a parallelogram. ∠ACB = ...

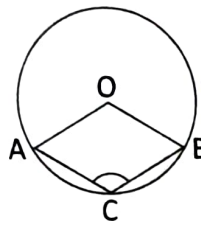

(A) 120° (B) 135°

(C) 110° (D) 90°

63. If 24 is 2/3 of 3/4 of a number, then what will be 1/4 of that number?

(A) 10 (B) 14

(C) 12 (D) 16

64. $\frac{(0.2)^3+(0.3)^3+(0.5)^3-3\times0.2\times0.3\times0.5}{(0.2)^2+(0.3)^2+(0.5)^2-0.2\times0.3-0.2\times0.5-0.3\times0.5}$ is equal to -

(A) 1 (B) 0.5

(C) 0.7 (D) 0.8

65. For which value of k, the following system of linear equations has infinite solutions?

$x + (k + 1)y = 5$

$(k + 1)x + 9y = 8k - 1$

(A) 0 (B) 3

(C) 2 (D) 1

60. एक अर्धगोलाकार कटोरे की त्रिज्या 3 सेमी. है। इसके अंदर भरे जा सकने वाले पानी का आयतन कितना होगा?

(A) 72π सेमी.^{3} (B) 18π सेमी.^{3}

(C) 9π सेमी.^{3} (D) 36π सेमी.^{3}

61. 700 ₹ को 3 वर्ष के लिए 4% वार्षिक चक्रवृद्धि ब्याज की दर से लिए गए उधार को चुकता करने में कुल कितना ब्याज भुगतान करना पड़ेगा?

(A) 84 ₹ (B) 87.40 ₹

(C) 124 ₹ (D) 28 ₹

62. दिए गए चित्र में, O वृत्त का केन्द्र है और ACBO एक समान्तर चतुर्भुज है। ∠ACB = ...

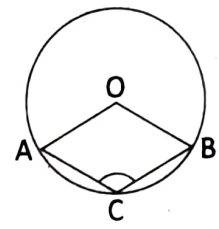

(A) 120° (B) 135°

(C) 110° (D) 90°

63. यदि 24 किसी संख्या के 3/4 का 2/3 है, तो उस संख्या का 1/4 क्या होगा?

(A) 10 (B) 14

(C) 12 (D) 16

64. $\frac{(0.2)^3+(0.3)^3+(0.5)^3-3\times0.2\times0.3\times0.5}{(0.2)^2+(0.3)^2+(0.5)^2-0.2\times0.3-0.2\times0.5-0.3\times0.5}$ बराबर है –

(A) 1 (B) 0.5

(C) 0.7 (D) 0.8

65. k के किस मान के लिए निम्न रैखिक समीकरण के निकाय के अनंत हल विद्यमान हैं?

$x + (k + 1)y = 5$

$(k + 1)x + 9y = 8k - 1$

(A) 0 (B) 3

(C) 2 (D) 1

66. P and Q have some amount. If P gives ₹ 30 to Q, then Q will have twice the amount left with P. But if Q gives ₹ 10 to P, then P will have three times the amount left with Q. P has amount -

(A) ₹ 34 (B) ₹ 62

(C) ₹ 32 (D) ₹ 64

67. If $5\left(\frac{3}{a}\right) \times b\left(\frac{1}{2}\right) = 19$, then values of a and b are -

(A) a = 7 ; b = 3 (B) a = 8 ; b = 4

(C) a = 5 ; b = 4 (D) a = 5 ; b = 2

68. 5 people were asked about the time in a week they spend in doing social work in their community. They replied 20, 14, 26, 40 and 30 hours respectively. Find the mean (or average) time in a week devoted by them for social work.

(A) 26 hours (B) 20 hours

(C) 14 hours (D) 40 hours

69. If (2x – 1) is a factor of $2x^3 + ax^2 + 11x + a + 3$, then value of a is -

(A) -5 (B) 5

(C) 7 (D) -7

70. Average age of 8 persons is increased by 2 years when two persons of age 20 years and 24 years are replaced by two women. Average age of these two women is -

(A) 35 years (B) 25 years

(C) 20 years (D) 30 years

66. P और Q के पास कुछ धन है। यदि P, Q को 30 ₹ देता है, तो Q के पास P के बचे हुए धन का दुगुना धन है। परन्तु यदि Q, P को 10 ₹ देता है, तो P के पास Q के बचे हुए धन का तिगुना धन है। P के पास राशि है –

(A) 34 ₹ (B) 62 ₹

(C) 32 ₹ (D) 64 ₹

67. यदि $5\left(\frac{3}{a}\right) \times b\left(\frac{1}{2}\right) = 19$, तो a और b के मान हैं –

(A) a = 7 ; b = 3 (B) a = 8 ; b = 4

(C) a = 5 ; b = 4 (D) a = 5 ; b = 2

68. 5 व्यक्तियों से पूछा गया तो उन्होने बताया कि सामुदायिक कार्य के लिए क्रमशः 20, 14, 26, 40 और 30 घण्टे प्रति सप्ताह देते हैं। उक्त व्यक्तियों द्वारा औसंत समय प्रति सप्ताह कितना दिया जाता है?

(A) 26 घंटा (B) 20 घंटा

(C) 14 घंटा (D) 40 घंटा

69. यदि (2x – 1), $2x^3 + ax^2 + 11x + a + 3$ का एक गुणनखंड है, तो a का मान है –

(A) -5 (B) 5

(C) 7 (D) -7

70. 8 व्यक्तियों की औसत आयु 2 वर्ष बढ़ जाती है, जब 20 वर्ष और 24 वर्ष आयु वाले दो व्यक्तियों को दो महिलाओं से बदल दिया जाता है। इन दोनों महिलाओं की औसत आयु है –

(A) 35 वर्ष (B) 25 वर्ष

(C) 20 वर्ष (D) 30 वर्ष

71. In the given figure, x = ...

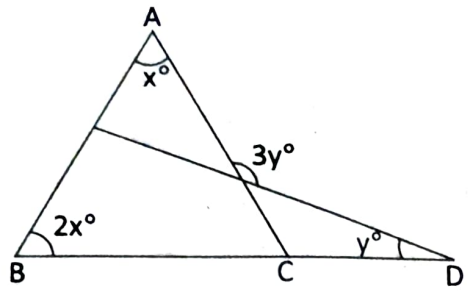

(A) $\frac{2y}{3}$ (B) $\frac{3}{2}y$

(C) $\frac{4y}{3}$ (D) $\frac{3}{4}y$

72. The lengths of the diagonal of a rhombus are 24 cm and 18 cm respectively; length of each side of the rhombus is -

(A) 21 cm (B) 15 cm

(C) 25 cm (D) 18 cm

73. At which height GPS satellites are placed?

(A) 9000 km (B) 30,200 km

(C) 36,000 km (D) 20,200 km

74. Water stored in earthen pots become cool in summer because of-

(A) osmosis (B) precipitation

(C) condensation (D) evaporation

75. The 5G test bed for Army Training Command will be established at-

(A) Military College of Science and Telecommunication, in Bangalore

(B) Army College of Telecommunication, in Bombay

(C) Army College of Science and Telecommunication, in Indore

(D) Military College of Telecommunication Engineering, in Mhow

71. दिए गए चित्र में, x = ...

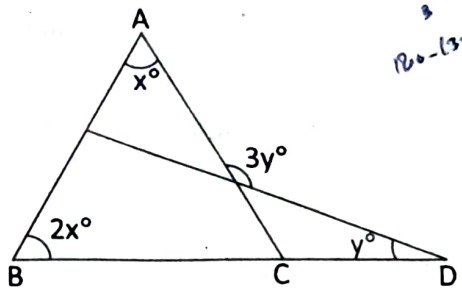

(A) $\frac{2y}{3}$ (B) $\frac{3}{2}y$

(C) $\frac{4y}{3}$ (D) $\frac{3}{4}y$

72. एक समचतुर्भुज के विकर्णों की लंबाई क्रमशः 24 सेमी. और 18 सेमी. है। समचतुर्भुज की प्रत्येक भुजा की लंबाई है –

(A) 21 सेमी. (B) 15 सेमी.

(C) 25 सेमी. (D) 18 सेमी.

73. जी.पी.एस. सैटेलाईट किस ऊँचाई पर स्थापित किए जाते हैं?

(A) 9000 कि.मी. (B) 30,200 कि.मी.

(C) 36,000 कि.मी. (D) 20,200 कि.मी.

74. मिट्टी के घड़ों में जमा पानी ग्रीष्मकाल में ठंडा हो जाता है, इसका कारण है–

(A) परासरण (B) अवक्षेपण

(C) संघनन (D) वाष्पीकरण

75. आर्मी ट्रेनिंग कमांड के लिए 5G टेस्ट बेड की स्थापना की जाएगी–

(A) मिलिट्री कॉलेज ऑफ साइंस एंड टेलीकम्युनिकेशन, बंगलौर में

(B) आर्मी कॉलेज ऑफ टेलीकम्युनिकेशन, बॉम्बे में

(C) आर्मी कॉलेज ऑफ साइंस एंड टेलीकम्युनिकेशन, इंदौर में

(D) मिलिट्री कॉलेज ऑफ टेलीकम्युनिकेशन इंजीनियरिंग, महू में

76. The cause of mirage formation in desert is-

(A) the refractive index of atmosphere decreases with decrease in height

(B) Scattering

(C) the refractive index of atmosphere increases with decrease in height

(D) the refractive index of atmosphere does not change with height

77. Areolar connective tissue is not found in -

(A) between internal organs

(B) the bone marrow

(C) around blood vessels

(D) between the skin and muscles

78. Which rocks are known as Primary rocks?

(A) metamorphic rocks

(B) sedimentary rocks

(C) igneous rocks

(D) All of the above

79. Why oil does not mix with water?

(A) Molecules of oil are polar

(B) Molecules of oil are bigger than that of water

(C) Only A is correct

(D) Both A and B are corect

80. How long does it take for a GPS signal to reach the earth?

(A) 1/10 second (B) 1/15 second

(C) 1/20 second (D) 1/25 second

76. मरुस्थल में मृगतृष्णा के निर्माण का कारण है –

(A) ऊँचाई के साथ वायुमंडल का अपवर्तनांक घटता है

(B) प्रकीर्णन

(C) ऊँचाई के साथ वायुमंडल का अपवर्तनांक बढ़ता है

(D) ऊँचाई के साथ वायुमंडल का अपवर्तनांक नहीं बदलता है

77. एरिओलर संयोजी ऊतक नहीं पाया जाता है –

(A) आन्तरिक अंगों के बीच में

(B) अस्थिमज्जा में

(C) रक्त वाहिकाओं के आस पास में

(D) त्वचा और मांसपेशियों के बीच में

78. किन चट्टानों को प्राथमिक चट्टानों के रूप में जाना जाता है?

(A) कायांतरित चट्टानें

(B) अवसादी चट्टानें

(C) आग्नेय चट्टानें

(D) उपरोक्त सभी

79. तेल पानी में क्यों नहीं घुलता है?

(A) तेल के अणु ध्रुवीय होते हैं

(B) तेल के अणु पानी से बड़े होते हैं

(C) केवल A सही है

(D) A और B दोनों सही हैं

80. जी.पी.एस. सिग्नल को पृथ्वी तक पहुँचने में कितना समय लगता है?

(A) 1/10 सेकेंड (B) 1/15 सेकेंड

(C) 1/20 सेकेंड (D) 1/25 सेकेंड

81. NH – 925A was used for emergency landing of which IAF aircraft?

(A) Hercules DC-130J
(B) Hercules C-130J
(C) Hercules KC-130J
(D) Hercules MC-130J

82. The PSLV-C52 successfully launched which satellite from the first launch pad of Satish Dhawan Space Centre, Sriharikota?

(A) EOS - 04 (B) EOS - 02
(C) EOS - 03 (D) EOS - 01

83. In which district of Rajasthan the PM WANI Scheme launched recently?

(A) Jaipur (B) Pratapgarh
(C) Udaipur (D) Jodhpur

84. The presence of the cell wall enables the cells of plants, fungi and bacteria to exist without bursting in which medium?

(A) Isotonic (B) Hypertonic
(C) Hypotonic (D) All of the above

85. GSAT-24 satellite was launched on space launch vehicle, by French company -

(A) Ariane 5 (B) Rocket lab
(C) SpaceX (D) Arianespace

81. राष्ट्रीय राजमार्ग 925 A, भारतीय वायुसेना के कौन से एयरक्राफ्ट की आपातकालीन लैंडिंग के लिए इस्तेमाल किया गया था?

(A) हरक्यूलिस DC-130J
(B) हरक्यूलिस C-130J
(C) हरक्यूलिस KC-130J
(D) हरक्यूलिस MC-130J

82. पी.एस.एल.वी.–C52 ने सतीश धवन अंतरिक्ष केन्द्र, श्रीहरिकोटा के पहले लॉन्च पैड से किस उपग्रह को सफलतापूर्वक लॉन्च किया?

(A) EOS - 04 (B) EOS - 02
(C) EOS - 03 (D) EOS - 01

83. राजस्थान के किस जिले में हाल ही में पी.एम. वाणी योजना का शुभारंभ हुआ?

(A) जयपुर (B) प्रतापगढ़
(C) उदयपुर (D) जोधपुर

84. कोशिका भित्ती की उपस्थिति पौधों, कवक और जीवाणुओं की कोशिकाओं को बिना फटे किस माध्यम में मौजूद रहने में सक्षम बनाती है?

(A) आइसोटोनिक (B) हाइपरटोनिक
(C) हाइपोटोनिक (D) उपरोक्त सभी

85. GSAT-24 उपग्रह को ..... फ्रांसीसी कंपनी द्वारा अंतरिक्ष प्रक्षेपण यान पर लॉन्च किया गया था।

(A) एरियन 5 (B) रॉकेट लैब
(C) स्पेसएक्स (D) एरियनस्पेस

86. Recently, which one of the following was awarded the President's Colour?

(A) INS Valsura

(B) INS Vikrant

(C) INS Sahayadri

(D) INS Vikramaditya

87. Which of the following fuel has maximum calorific value (in kJ/kg)?

(A) Methane (B) Coal

(C) LPG (D) Petrol

88. Voice of which of the following is likely to have minimum frequency?

(A) woman (B) baby boy

(C) man (D) baby girl

89. When was "Mukhyamantri Yuva Sambal Yojana" started in Rajasthan?

(A) 1st February, 2020 (B) 10th March, 2020

(C) 10th March, 2019 (D) 1st February, 2019

90. The 'Submarine Canyons' are locate on/in -

(A) Continental shelf

(B) Ocean deeps

(C) Deep sea plains

(D) Continental slopes

91. Which of the following is not correctly matched?

(A) Moosi Maharani ki Chhatri – Alwar

(B) Joganiya Mata Temple – Bhilwara

(C) National Desert Park – Jaisalmer

(D) Sunehri Kothi – Sikar

86. हाल ही में किसे राष्ट्रपति रंग / प्रेसिडेण्ट्स कलर से सम्मानित किया गया है?

(A) आई. एन. एस. वल्सुरा

(B) आई. एन. एस. विक्रांत

(C) आई. एन. एस. सहयाद्री

(D) आई. एन. एस. विक्रमादित्य

87. निम्नलिखित में से किस ईंधन का ऊष्मीय मान / कैलोरिफिक मान (kJ/kg में) अधिकतम है?

(A) मीथेन (B) कोयला

(C) एल.पी.जी. (D) पेट्रोल

88. निम्नलिखित में से किसकी आवाज की आवृत्ति न्यूनतम होने की संभावना है?

(A) औरत (B) लड़का

(C) पुरुष (D) लड़की

89. राजस्थान में "मुख्यमंत्री युवा सम्बल योजना" कब प्रारम्भ की गयी?

(A) 1 फरवरी, 2020 (B) 10 मार्च, 2020

(C) 10 मार्च, 2019 (D) 1 फरवरी, 2019

90. 'अन्तः सागरीय कैनियन' अवस्थित होती हैं –

(A) महाद्वीपीय मग्नतटों पर

(B) महासागरीय गर्तों में

(C) अगाध सागरीय मैदानों में

(D) महाद्वीपीय ढालों पर

91. निम्न में से कौनसा सुमेलित नहीं है?

(A) मूसी महारानी की छतरी – अलवर

(B) जोगनिया माता मंदिर – भीलवाड़ा

(C) राष्ट्रीय मरु उद्यान – जैसलमेर

(D) सुनहरी कोठी – सीकर

92. Match the following –

List-I

(a) Barkhan

(b) Lathi series

(c) Inselberg

(d) Playa

List-II

(i) Abu mountain block

(ii) Sand dune

(iii) Dry lake

(iv) Underground water belt

Correct code is -

(A) (a)-(ii), (b)-(iv), (c)-(i), (d)-(iii)

(B) (a)-(iv), (b)-(ii), (c)-(i), (d)-(iii)

(C) (a)-(iii), (b)-(iv), (c)-(i), (d)-(ii)

(D) (a)-(ii), (b)-(iv), (c)-(iii), (d)-(i)

93. Which one of the following is not a salt water lake?

(A) Rewasa **(B)** Jaitsagar

(C) Deedwana **(D)** Kavod

94. Desert Development Programme was started in Rajasthan in the year-

(A) 1981-82 **(B)** 1999

(C) 1974-75 **(D)** 1977-78

95. Which of the following districts is not covered by Aravalli afforestation project?

(A) Nagaur **(B)** Ajmer

(C) Pali **(D)** Sikar

92. निम्नलिखित को सुमेलित कीजिये –

सूची–I

(a) बरखान

(b) लाठी श्रृंखला

(c) इंसेलबर्ग

(d) प्लाया

सूची–II

(i) आबू पर्वत खंड

(ii) बालू का स्तूप

(iii) शुष्क झील

(iv) भूगर्भिक जलपट्टी

सही कूट है –

(A) (a)-(ii), (b)-(iv), (c)-(i), (d)-(iii)

(B) (a)-(iv), (b)-(ii), (c)-(i), (d)-(iii)

(C) (a)-(iii), (b)-(iv), (c)-(i), (d)-(ii)

(D) (a)-(ii), (b)-(iv), (c)-(iii), (d)-(i)

93. निम्नलिखित में से कौनसी नमकीन (खारे) पानी की झील नहीं है?

(A) रेवासा **(B)** जैतसागर

(C) डीडवाना **(D)** कावोद

94. राजस्थान में मरु विकास कार्यक्रम की शुरुआत हुई थी –

(A) वर्ष 1981-82 में **(B)** वर्ष 1999 में

(C) वर्ष 1974-75 में **(D)** वर्ष 1977-78 में

95. अरावली वनीकरण परियोजना के अन्तर्गत निम्न में से कौनसा जिला नहीं आता है?

(A) नागौर **(B)** अजमेर

(C) पाली **(D)** सीकर

1231136779

96. Which one of the following (Mineral - Production area) is not correctly matched?
(A) Pyrite – Sarwar
(B) Emerald – Kalaguman
(C) Soap stone – Rishabdev
(D) Garnet – Rajmahal

97. Sirohi, Pali and Jalore districts comes under which agro climatic zone of Rajasthan?
(A) III-B (B) I-A
(C) II-A (D) II-B

98. Which is not correctly matched?
(A) Mewat – Alwar-Bharatpur
(B) Vagad – Dungarpur-Baswara
(C) Bhomat – Pratapgarh-Chittorgarh
(D) Hadoti – Kota–Bundi–Jhalawar

99. Which of following medicinal plant is not included in Rajasthan Ghar-Ghar Aushadhi Yojana?
(A) Musli (B) Kalmegh
(C) Aswagandha (D) Gilloy

100. 'Funafuti' is a -
(A) Atoll (B) Lake in Japan
(C) River in Japan (D) Currency of Tuvalu

101. The earth reaches its perihelion in -
(A) January (B) September
(C) July (D) March

102. As per new system of soil classification the 'Alfisols' soil is found in Rajasthan in -
(A) Jaisalmer and Barmer
(B) Pratapgarh and Sirohi
(C) Churu, Jhunjhunu and Sikar
(D) Jaipur, Alwar and Kota

96. निम्नलिखित में से कौनसा (खनिज – उत्पादक क्षेत्र) सुमेलित नहीं है?
(A) पाइराइट – सरवाड़
(B) पन्ना–कालागुमान
(C) घीया पत्थर – ऋषभदेव
(D) गार्नेट / तामड़ा – राजमहल

97. सिरोही, पाली तथा जालौर जिले, राजस्थान के किस कृषि जलवायु खण्ड के अंतर्गत आते हैं?
(A) III-B (B) I-A
(C) II-A (D) II-B

98. कौनसा सही सुमेलित नहीं है?
(A) मेवात – अलवर–भरतपुर
(B) वागड़ – डूंगरपुर–बांसवाड़ा
(C) भोमट – प्रतापगढ़–चित्तौड़गढ़
(D) हाड़ौती – कोटा–बूंदी–झालावाड़

99. निम्नलिखित में से कौनसा औषधि पौधा राजस्थान घर–घर औषधि योजना में शामिल नहीं है?
(A) मूसली (B) कालमेघ
(C) अश्वगंधा (D) गिलोय

100. 'फनाफुटी' है –
(A) प्रवाल द्वीप (B) जापान में एक झील
(C) जापान में एक नदी (D) तुवालू की मुद्रा

101. पृथ्वी उपसौर की अवस्था में पहुँचती है –
(A) जनवरी में (B) सितम्बर में
(C) जुलाई में (D) मार्च में

102. मृदा के नवी वर्गीकरण के अनुसार राजस्थान में 'अल्फीसोल्स' मृदा पायी जाती है –
(A) जैसलमेर और बाड़मेर में
(B) प्रतापगढ़ और सिरोही में
(C) चूरू, झुंझुनू और सीकर में
(D) जयपुर, अलवर और कोटा में

103. Among the following which is the first Wind Power Project in Rajasthan?
(A) Phalodi Wind Power Project
(B) Devgarh Wind Power Project
(C) Amarsagar Wind Power Project
(D) Bithadi Wind Power Project

104. Which river enters into Rajasthan from North direction?
(A) Kantli (B) Chambal
(C) Mahi (D) Ghagghar

105. The 'Great Artesian Basin' is located at -
(A) Antarctica (B) Australia
(C) South America (D) North America

106. Which state has the maximum Ramsar wetland sites in India?
(A) Uttarakhand (B) Madhya Pradesh
(C) Uttar Pradesh (D) Odisha

107. Match List-I with List –II and choose the correct answer from the code given below –

List-I (City)
(i) Detroit
(ii) Sheffield
(iii) Los Angeles
(iv) Multan

List-II (Industry)
(a) Cutlery
(b) Automobile
(c) Film
(d) Pottery

Code -
(A) (i)-(b), (ii)-(a), (iii)-(c), (iv)-(d)
(B) (i)-(b), (ii)-(c), (iii)-(d), (iv)-(a)
(C) (i)-(b), (ii)-(c), (iii)-(a), (iv)-(d)
(D) (i)-(c), (ii)-(a), (iii)-(b), (iv)-(d)

103. निम्नलिखित में से राजस्थान की प्रथम पवन ऊर्जा परियोजना कौन सी है?
(A) फलोदी पवन ऊर्जा परियोजना
(B) देवगढ़ पवन ऊर्जा परियोजना
(C) अमरसागर पवन ऊर्जा परियोजना
(D) बीथढ़ी पवन ऊर्जा परियोजना

104. कौनसी नदी राजस्थान में उत्तर दिशा से प्रवेश करती है?
(A) कान्तली (B) चंबल
(C) माही (D) घग्घर

105. 'ग्रेट आर्टिसियन बेसिन' अवस्थित है –
(A) अण्टार्कटिका में (B) ऑस्ट्रेलिया में
(C) दक्षिणी अमेरिका में (D) उत्तरी अमेरिका में

106. भारत के किस राज्य में सर्वाधिक रामसर आर्द्रभूमी स्थल हैं?
(A) उत्तराखण्ड (B) मध्यप्रदेश
(C) उत्तर प्रदेश (D) ओडिशा

107. सूची-I को सूची-II से समेलित कीजिए तथा नीचे दिये गए कूट में से सही उत्तर चुनिए –

सूची-I (नगर)
(i) डेट्रॉयट
(ii) शेफील्ड
(iii) लॉस एंजेलिस
(iv) मुल्तान

सूची-II (उद्योग)
(a) कटलरी
(b) ऑटोमोबाईल
(c) फिल्म
(d) मिट्टी के बर्तन

कूट –
(A) (i)-(b), (ii)-(a), (iii)-(c), (iv)-(d)
(B) (i)-(b), (ii)-(c), (iii)-(d), (iv)-(a)
(C) (i)-(b), (ii)-(c), (iii)-(a), (iv)-(d)
(D) (i)-(c), (ii)-(a), (iii)-(b), (iv)-(d)

108. Which statement is not correct?

(A) Dry teak forests are found in Southern parts of Rajasthan.

(B) Sub-tropical evergreen forests are found in Mount Abu region.

(C) Mixed deciduous forests are found in Udaipur, Chittorgarh and Sirohi districts.

(D) Tropical thorn forests are mostly found in Eastern part of Rajasthan.

109. In which months rainfall occurs through the western disturbances in Rajasthan?

(A) September and October

(B) April and May

(C) December and January

(D) July and August

110. Which isohyet separates the Sandy Arid Plains and Semi-arid Transitional Plains of Rajasthan?

(A) 75 cm (B) 25 cm

(C) 10 cm (D) 50 cm

111. Normal Lapse rate of temperature in troposphere is -

(A) 3°C/1000 meter

(B) 6.5°C/1000 meter

(C) 5.5°C/1000 meter

(D) 10°C/1000 meter.

112. Which Topography is found along the foothills of the Shiwaliks?

(A) Khadar (B) Bhabar

(C) Bhangar (D) Delta

108. कौनसा कथन असत्य है?

(A) शुष्क सागवान वन राजस्थान के दक्षिणी भागों में पाये जाते हैं।

(B) उपोष्ण कटिबंधीय सदाबहार वन आबू पर्वतीय क्षेत्र में पाये जाते हैं।

(C) मिश्रित पतझड़ वन उदयपुर, चित्तौड़गढ़ और सिरोही जिलों में मिलते हैं।

(D) उष्णकटिबंधीय कांटेदार वन अधिकांशतः पूर्वी राजस्थान में मिलते हैं।

109. राजस्थान में पश्चिमी विक्षोभों से वर्षा किन महीनों में होती है?

(A) सितम्बर और अक्टूबर

(B) अप्रैल और मई

(C) दिसम्बर और जनवरी

(D) जुलाई और अगस्त

110. राजस्थान के रेतीले शुष्क मैदान तथा अर्द्ध–शुष्क संक्रमणकालीन मैदानों को कौनसी समवर्षा रेखा अलग करती है?

(A) 75 सेमी. (B) 25 सेमी.

(C) 10 सेमी. (D) 50 सेमी.

111. क्षोभमण्डल में सामान्य ताप पतन दर है –

(A) 3°C/1000 मीटर

(B) 6.5°C/1000 मीटर

(C) 5.5°C/1000 मीटर

(D) 10°C/1000 मीटर

112. शिवालिक के पर्वत पदों में कौनसी स्थलाकृति पायी जाती है?

(A) खादर (B) भाबर

(C) भांगर (D) डेल्टा

BTBK

113. Which one of the following (Tribe – Place/Area) is not correctly matched?
(A) Garasia – Sirohi, Udaipur
(B) Damor – Dungarpur
(C) Kathodi – Simalwara
(D) Rebari – Baran

114. When was Rajasthan Agro Processing Agribusiness and Agri Exports Promotion Policy launched?
(A) 18 December, 2020
(B) 18 December, 2017
(C) 17 December, 2019
(D) 17 December, 2018

115. Which crop showed the highest increase in output during 35 years from 1980-81 to 2015 in Rajasthan?
(A) Wheat (B) Rapeseed and Mustard
(C) Sugarcane (D) Bajra

116. Vertisol soil is found in which part of Rajasthan?
(A) North – Western part
(B) South – Eastern part
(C) South – Western part
(D) Eastern part

117. The agriculture and allied sector is expected to contribute to ..... percent in Rajasthan's Gross State Value Added (GSVA) at current prices during the year 2020-21.
(A) 20.77 (B) 29.77
(C) 33.77 (D) 27.77

118. Which of the following river is not related with Inland drainage?
(A) Sagi (B) Sabi
(C) Ghaggar (D) Kakni

113. निम्नलिखित में से कौन सा (जनजाति–स्थान / क्षेत्र) सुमेलित नहीं है?
(A) गरासिया – सिरोही, उदयपुर
(B) डामोर – डूंगरपुर
(C) कथोड़ी – सिमलवाड़ा
(D) रेबारी – बारां

114. राजस्थान कृषि प्रसंस्करण, कृषि व्यवसाय एवं कृषि निर्यात प्रोत्साहन नीति कब प्रारंभ की गयी?
(A) 18 दिसंबर, 2020
(B) 18 दिसंबर, 2017
(C) 17 दिसंबर, 2019
(D) 17 दिसंबर, 2018

115. राजस्थान में 1980-81 से 2015 तक के 35 वर्षों के दौरान किस फसल ने उत्पादन में सर्वाधिक वृद्धि दिखाई?
(A) गेहूँ (B) तोरिया और सरसों
(C) गन्ना (D) बाजरा

116. वर्टिसोल मिट्टी राजस्थान के किस भाग में मिलती है?
(A) उत्तर–पश्चिमी भाग
(B) दक्षिण–पूर्वी भाग
(C) दक्षिणी–पश्चिमी भाग
(D) पूर्वी भाग

117. कृषि एवं संबंधित क्षेत्र का वर्ष 2020-21 में वर्तमान कीमतों पर राजस्थान के सकल राज्य मूल्य वर्धन में ..... प्रतिशत योगदान करने का अनुमान है।
(A) 20.77 (B) 29.77
(C) 33.77 (D) 27.77

118. निम्नलिखित में से कौन सी नदी आंतरिक अपवाह से संबंधित नहीं है?
(A) सागी (B) साबी
(C) घग्घर (D) काकनी

119. Which of the following is not a beneficiary crop through the Mavath?

(A) Wheat (B) Mustard

(C) Gram (D) Groundnut

120. Which (Place – Energy Source) is not correctly matched?

(A) Rawatbhata – Atomic Energy

(B) Giral – Geothermal Energy

(C) Jaisalmer – Wind Energy

(D) Gorir – Solar Energy

121. According to the 73rd amendment of the Panchayati Raj System of the Constitution, Which statements are correct?

(i) In Panchayati Raj Institutions at least 2/3 of the post of Chairperson are reserved for women.

(ii) 11th schedule was added in the Constitution by the 73rd Constitutional Amendment.

(iii) Madhya Pradesh was the first state to implement the 73rd Constitutional Amendment.

(iv) The 73rd Constitutional Amendment Act came into force from April 24, 1994.

(A) (ii), (iii) and (i)

(B) (ii), (iii) and (iv)

(C) (ii) and (iii)

(D) (i) and (iii)

122. Which (Industrial Park - Place) is not correctly matched?

(A) Leather Park – Achrol

(B) Stone park – Dholpur

(C) Japanese park – Neemrana

(D) Hosiery park – Chopanki

119. निम्नलिखित में से मावठ द्वारा लाभार्थी फसल कौन सी नहीं है?

(A) गेहूँ (B) सरसों

(C) चना (D) मूंगफली

120. कौन सा (स्थान – ऊर्जा का स्त्रोत) सही सुमेलित नहीं है?

(A) रावतभाटा – परमाणु ऊर्जा

(B) गिरल – भूतापीय ऊर्जा

(C) जैसलमेर – पवन ऊर्जा

(D) गौरीर – सौर ऊर्जा

121. संविधान की पंचायती राज व्यवस्था के 73वें संशोधन के अनुसार कौन से कथन सही हैं?

(i) पंचायती राज संस्थाओं में अध्यक्ष के कम से कम 2/3 पद महिलाओं के लिए आरक्षित हैं।

(ii) 73वें संविधान संशोधन द्वारा 11वीं अनुसूची को संविधान में जोड़ा गया।

(iii) मध्यप्रदेश 73वां संविधानिक संशोधन लागू करने वाला पहला राज्य था।

(iv) 73वां संविधान संशोधन अधिनियम 24 अप्रैल, 1994 से लागू हुआ।

(A) (ii), (iii) और (i)

(B) (ii), (iii) और (iv)

(C) (ii) और (iii)

(D) (i) और (iii)

122. कौन सा (औद्योगिक पार्क - स्थान) सही सुमेलित नहीं है?

(A) चमड़ा पार्क – अचरोल

(B) स्टोन पार्क – धौलपुर

(C) जापानी पार्क – नीमराना

(D) होजरी पार्क – चोपंकी

123. In Rajasthan 'Jeevan Dhara Yojana' is related with -

(A) Insurance for poor

(B) Health facility for SC and ST

(C) Drinking water for urban areas

(D) To built irrigation wells for SC and ST

124. Which one of the following enterprise is not of government of Rajasthan?

(A) Rajasthan State Chemical Limited - Deedwana

(B) Ganganagar Sugar Mills Limited

(C) The Hi-tech Precision Glass Limited - Dholpur

(D) Sambhar Salts Limited

125. Degana – Bhakri in Rajasthan is famous for which mineral?

(A) Silver (B) Beryllium

(C) Copper (D) Tungsten

126. According to Indira Gandhi lift Canal Project, which statement are incorrect?

(i) This project was previously known as Rajasthan Canal and later renamed as Indira Gandhi lift Canal Project in 1982.

(ii) There are 9 lift canals in Indira Gandhi lift Canal Project.

(iii) The Canal was conceived by Sardul Singh.

(iv) The canal does not passes through Haryana.

Code -

(A) (i) and (ii) only

(B) (ii), (iii) and (iv) only

(C) (i), (ii) and (iii) only

(D) (i), (ii), (iii) and (iv)

123. राजस्थान में 'जीवन धारा योजना' का संबंध है -

(A) गरीबों हेतु बीमा से

(B) एस.सी. और एस.टी. हेतु स्वास्थ्य सुविधा से

(C) नगरीय क्षेत्रों हेतु पीने के पानी से

(D) एस.सी. और एस.टी. हेतु सिंचाई कुओं के निर्माण से

124. निम्नलिखित में से कौन सा उपक्रम राजस्थान सरकार का नहीं है?

(A) राजस्थान स्टेट केमिकल लिमिटेड – डीडवाना

(B) गंगानगर शुगर मिल्स लिमिटेड

(C) दी हाई–टेक प्रिसिज़न ग्लास लिमिटेड – धौलपुर

(D) सांभर सॉल्ट्स लिमिटेड

125. राजस्थान का डेगाना – भाकरी क्षेत्र किस खनिज के लिए प्रसिद्ध है?

(A) चांदी (B) बेरिलियम

(C) तांबा (D) टंगस्टन

126. इंदिरा गांधी नहर परियोजना के अनुसार, कौन से कथन गलत हैं?

(i) इस परियोजना को पहले राजस्थान नहर के रूप में जाना जाता था और 1982 में इसका नाम बदलकर इंदिरा गांधी लिफ्ट नहर परियोजना कर दिया गया।

(ii) इंदिरा गांधी नहर परियोजना में 9 लिफ्ट नहरें हैं।

(iii) नहर की कल्पना सारदुल सिंह ने की थी।

(iv) नहर हरियाणा से नहीं गुजरती है।

कोड –

(A) केवल (i) और (ii)

(B) केवल (ii), (iii) और (iv)

(C) केवल (i), (ii) और (iii)

(D) (i), (ii), (iii) और (iv)

127. How many districts were affected by famine in Rajasthan in 2020-21?

(A) 21 (B) 9

(C) 10 (D) 6

128. Which one of the following (Irrigation project – District) is not correctly matched?

(A) Bilas – Baran (B) Chauli – Dungarpur

(C) Gararda – Bundi (D) Panchana – Karauli

129. Which oilseed is grown in Rabi season in Rajasthan?

(A) Sesame (B) Soybean

(C) Mustard (D) Groundnut

130. The 'Chambal and 'Mahi Sugandha' are improved varieties of which crop?

(A) Gram (B) Rice

(C) Mustard (D) Sugarcane

131. Which of the following lakes of Rajasthan is not included in National Lake Conservation Programme?

(A) Fateh Sagar (B) Ana Sagar

(C) Nakki (D) Rajsamand

132. The agriculture done by slash and burn in Rajasthan is called -

(A) Kachhabu (B) Pal

(C) Walra (D) Gameti

133. On the basis of populations of tribes, the place of Rajasthan in India is -

(A) 2nd (B) 6th

(C) 4th (D) 3rd

1231336779 1231336779 1231336779 1231336779

127. राजस्थान में 2020-21 में कितने जिले अकाल से प्रभावित हुए?

(A) 21 (B) 9

(C) 10 (D) 6

128. निम्नलिखित में से कौन सा (सिंचाई परियोजना – जिला) सुमेलित नहीं है?

(A) बिलास – बारां (B) चौली – डूंगरपुर

(C) गरड़दा – बूंदी (D) पांचना – करौली

129. राजस्थान में कौन सी तिलहन की फसल रबी के मौसम में बोई जाती है?

(A) तिल (B) सोयाबीन

(C) सरसों (D) मूंगफली

130. 'चम्बल' और 'माही सुगंधा' किस फसल की उन्नत किस्में हैं?

(A) चना (B) चावल

(C) सरसों (D) गन्ना

131. राष्ट्रीय झील संरक्षण कार्यक्रम के अन्तर्गत राजस्थान की निम्नलिखित में से कौन सी झील शामिल नहीं है?

(A) फतेह सागर (B) आना सागर

(C) नक्की (D) राजसमंद

132. राजस्थान में वनों को काटकर व जलाकर की जाने वाली कृषि कहलाती है –

(A) कछाबू (B) पाल

(C) वालरा (D) गमेती

133. जनजातियों की जनसंख्या के आधार पर राजस्थान का भारत में कौन सा स्थान है?

(A) दूसरा (B) छठा

(C) चौथा (D) तीसरा

134. Which (Dam - District) is not correctly matched?

(A) Mora Sagar dam – Tonk

(B) Gosunda dam – Chittorgarh

(C) Panchana dam – Karauli

(D) Hingonia dam – Jaipur

135. Which (Handicraft – Place) is not correctly matched?

(A) Wooden Toys – Bassi

(B) Masuria Sari – Kaithoon

(C) Bandhej Tie and Dye – Jaipur

(D) Tarkashi Work – Udaipur

136. Which one of the following (Research institute – State/place) is not matched correctly?

(A) Central Sugarcane Research Institute – Coimbatore

(B) Central Coffee Research Institute – Bellary

(C) Central Tobacco Research Institute – Rajahmundry

(D) Central Plantation Crops Research Institute – Kasargod

137. Match the following –

Column – I

(I) Hota

(II) Udgata

(III) Adhvaryu

(IV) Purohit

Column – II

(a) The chief priest who performs the Yajna

(b) One who chants the hymns of Rigveda

(c) One who recites the verses of Samveda

(d) One who reads the Mantras of Yajurveda

(A) I-(a), II-(c), III-(d), IV-(b)

(B) I-(b), II-(c), III-(d), IV-(a)

(C) I-(b), II-(a), III-(d), IV-(c)

(D) I-(b), II-(d), III-(c), IV-(a)

134. कौन सा (बांध – जिला) सही सुमेलित नहीं है?

(A) मोरा सागर बांध – टोंक

(B) घोसुण्डा बांध – चित्तौड़गढ़

(C) पांचना बांध – करौली

(D) हिंगोनिया बांध – जयपुर

135. कौन सा (हस्तशिल्प – स्थान) सही सुमेलित नहीं है?

(A) लकड़ी के खिलौने – बस्सी

(B) मसूरिया साड़ी – कैथून

(C) बंधेज (टाई एंड डाई) – जयपुर

(D) तारकशी का काम – उदयपुर

136. निम्नलिखित में से कौन सा (अनुसंधान संस्थान–राज्य/स्थान) सुमेलित नहीं है?

(A) केन्द्रीय गन्ना अनुसंधान संस्थान – कोयम्बटूर

(B) केन्द्रीय कॉफी शोध संस्थान – बेल्लारी

(C) केन्द्रीय तम्बाकू शोध संस्थान – राजमुन्द्री

(D) केन्द्रीय रोपण फसल शोध संस्थान – कासरगोड़

137. निम्न को सुमेलित कीजिए –

कॉलम – I

(I) होता

(II) उद्गाता

(III) अध्वर्यु

(IV) पुरोहित

कॉलम – II

(a) यज्ञ सम्पन्न करने वाला प्रमुख पुरोहित

(b) ऋग्वेद की ऋचाओं का पाठ करने वाला

(c) सामवेद के छंदों का गायन करने वाला

(d) यजुर्वेद के मंत्रों का पठन करने वाला

(A) I-(a), II-(c), III-(d), IV-(b)

(B) I-(b), II-(c), III-(d), IV-(a)

(C) I-(b), II-(a), III-(d), IV-(c)

(D) I-(b), II-(d), III-(c), IV-(a)

138. When the Rajputana Madhya Bharat Sabha was established?

(A) 1918 (B) 1917

(C) 1919 (D) 1916

139. Bamlu, Likhmadesar, Panchala Siddha are related with the sect -

(A) Nimbark Sect (B) Ramsnehi Sect

(C) Bishnoi Sect (D) Jasnathi Sect

140. On the banks of which river did Ganeshwar civilization develop?

(A) Ghagghar (B) Kantli

(C) Banas (D) Luni

141. Which of the following is an example of Monolithic Architecture?

(A) Brihadeshwara Temple of Thanjavur

(B) Meenakshi Temple of Madurai

(C) Mahabodhi Temple of Gaya

(D) Dharmraj Rath of Mahabalipuram

142. The inscription, which claims the victory of Pratihara King Kakkuka over Abhir?

(A) Chirva inscription (B) Ghatiyala inscription

(C) Arthuna inscription (D) Bijolia inscription

143. Which of the following is a string instrument?

(A) Satara (B) Morchang

(C) Rawaj (D) Bankia

144. Asind (Bhilwara) is related to which of the following folk deity?

(A) Meha Ji (B) Mallinath Ji

(C) Deonarayan Ji (D) Ramdev Ji

138. राजपुताना मध्य भारत सभा कब स्थापित की गयी थी?

(A) 1918 में (B) 1917 में

(C) 1919 में (D) 1916 में

139. बमलू, लिखमादेसर, पांचला सिद्धा किस संप्रदाय से संबंधित हैं?

(A) निम्बार्क सम्प्रदाय (B) रामस्नेही सम्प्रदाय

(C) विश्नोई सम्प्रदाय (D) जसनाथी सम्प्रदाय

140. गणेश्वर सभ्यता का विकास किस नदी के किनारे हुआ?

(A) घग्घर (B) कांतली

(C) बनास (D) लूनी

141. निम्नलिखित में से कौन सा अखंड वास्तुकला का एक उदाहरण है?

(A) तंजावूर का बृहदेश्वर मंदिर

(B) मदुरई का मीनाक्षी मंदिर

(C) गया का महाबोधि मंदिर

(D) महाबलिपुरम का धर्मराज रथ

142. अभिलेख, जो प्रतिहार शासक कक्कुक की आभीरों पर विजय का दावा करता है –

(A) चीरवा अभिलेख (B) घटियाला अभिलेख

(C) अर्थुणा अभिलेख (D) बीजोलिया अभिलेख

143. निम्नलिखित में से कौन सा तत् वाद्य है?

(A) सतारा (B) मोरचंग

(C) रवाज (D) बांकिया

144. आसींद (भीलवाड़ा) निम्नलिखित में से किस लोक देवता से संबद्ध है?

(A) मेहा जी (B) मल्लीनाथ जी

(C) देवनारायण जी (D) रामदेव जी

145. Arrange the following early ruler of Rathore dynasty of Marwar into chronological order?

(i) Rao Siha

(ii) Rao Asthan

(iii) Rao Doohad

(iv) Rao Raipal

Choose the correct code -

(A) (i), (iii), (iv), (ii)

(B) (i), (iii), (ii), (iv)

(C) (i), (ii), (iii), (iv)

(D) (i), (iv), (iii), (ii)

145. मारवाड़ में राठौड़ वंश के निम्नलिखित प्रारंभिक शासकों को कालक्रमानुसार व्यवस्थित कीजिए –

(i) राव सीहा

(ii) राव अस्थान

(iii) राव दूहड़

(iv) राव रायपाल

सही कूट का चयन करें –

(A) (i), (iii), (iv), (ii)

(B) (i), (iii), (ii), (iv)

(C) (i), (ii), (iii), (iv)

(D) (i), (iv), (iii), (ii)

146. In which year did Gandhiji write the book 'Hind Swaraj'?

(A) 1919 (B) 1909

(C) 1906 (D) 1897

146. गांधी जी ने 'हिन्द स्वराज' पुस्तक किस वर्ष में लिखी?

(A) 1919 (B) 1909

(C) 1906 (D) 1897

147. Who among the following got constructed Patwon ki Haveli?

(A) Nathmal (B) Jorawar Mal

(C) Salim Singh (D) Guman Chand

147. पटवों की हवेली का निर्माण किसने करवाया था?

(A) नथमल (B) जौरावर मल

(C) सालिम सिंह (D) गुमान चंद

148. What is 'Maruvani'?

(A) A program broadcast from Jaipur radio station

(B) Monthly magazine of Rajasthani language

(C) Dictionary of Rajasthani language

(D) Top collection of Rajasthani songs

148. 'मरूवाणी' क्या है ?

(A) जयपुर रेडियो स्टेशन से प्रसारित कार्यक्रम

(B) राजस्थानी भाषा की मासिक पत्रिका

(C) राजस्थानी भाषा का शब्दकोष

(D) प्रमुख राजस्थानी गीतों का संग्रह

149. Heltu Institution is associated with -

(A) Garasia tribe (B) Saharia tribe

(C) Meena tribe (D) Bhil tribe

150. Naulakha Baori near Dungarpur was built by -

(A) Nathavati (B) Kishori Devi

(C) Ramarasade (D) Premal Devi

151. 'Chaar Bait' is the folk drama of -

(A) Jaipur (B) Jalore

(C) Bharatpur (D) Tonk

152. "Ijlas Khas" was founded by

(A) Rana Bhagwant Singh

(B) Maharana Sajjan Singh

(C) Maharaja Banne Singh

(D) Maharaja Ajit Singh

153. Match the following –

Author

(a) Jayanaka

(b) Nayanchandra Suri

(c) Chandra Shekhar

(d) Haribhadra Suri

Work

(i) Hammira Mahakavya

(ii) Samaraichchakaha

(iii) Prithviraj Vijay

(iv) Surjan-Charitra

Code –

(A) a-(i), b-(ii), c-(iii), d-(iv)

(B) a-(iv), b-(iii), c-(ii), d-(i)

(C) a-(iii), b-(iv), c-(ii), d-(i)

(D) a-(iii), b-(i), c-(iv), d-(ii)

149. हेलरु संस्था संबद्ध है –

(A) गरासिया जनजाति से (B) सहारिया जनजाति से

(C) मीना जनजाति से (D) भील जनजाति से

150. डूंगरपुर के निकट नौलख बावड़ी किसने बनवाई थी?

(A) नाथावती (B) किशोरी देवी

(C) रामरसदे (D) प्रेमल देवी

151. 'चारबैत' कहाँ का लोकनाट्य है?

(A) जयपुर (B) जालौर

(C) भरतपुर (D) टोंक

152. "इजलास खास" की स्थापना की थी–

(A) राणा भगवंत सिंह

(B) महाराणा सज्जन सिंह

(C) महाराजा बन्ने सिंह

(D) महाराजा अजीत सिंह

153. निम्नलिखित को सुमेलित कीजिए –

लेखक

(a) जयानक

(b) नयनचन्द्र सूरी

(c) चन्द्रशेखर

(d) हरिभद्र सूरी

कृति

(i) हम्मीर महाकाव्य

(ii) समराइच्चकहा

(iii) पृथ्वीराज विजय

(iv) सुर्जन चरित्र

कूट –

(A) a-(i), b-(ii), c-(iii), d-(iv)

(B) a-(iv), b-(iii), c-(ii), d-(i)

(C) a-(iii), b-(iv), c-(ii), d-(i)

(D) a-(iii), b-(i), c-(iv), d-(ii)

ExamHigh

154. Match the following –

Ancient divisions of Rajasthan

(a) Ananta-Gochar
(b) Swarnagiri
(c) Kantal
(d) Arbud

Modern districts

(i) Sirohi
(ii) Pratapgarh
(iii) Jalore
(iv) Sikar

Code –

(A) a-(ii), b-(iii), c-(iv), d-(i)

(B) a-(iv), b-(iii), c-(ii), d-(i)

(C) a-(i), b-(ii), c-(iii), d-(iv)

(D) a-(iii), b-(iv), c-(ii), d-(i)

155. The ruler of Dholpur at the time of revolution of 1857 was -

(A) Keerat Singh **(B)** Udaibhan Singh

(C) Bhagwant Singh **(D)** Ram Singh

156. The 'Hela Khyal' folk music belongs to which areas of Rajasthan?

(A) Dausa – Sawai Madhopur **(B)** Bhilwara – Ajmer

(C) Sikar – Jhunjhunu **(D)** Jodhpur – Bikaner

157. Which of the following is not correctly matched as per Schools of Rajputana Paintings and their styles?

(A) Mewar School – Nathdwara and Devgarh Styles

(B) Dhundhar School – Chavand and Udaipur Styles

(C) Marwar School – Kishangarh and Nagaur Styles

(D) Hadoti School – Kota and Bundi Styles

154. निम्नलिखित को सुमेलित कीजिए –

राजस्थान के प्राचीन क्षेत्र

(a) अनंत–गोचर
(b) स्वर्णगिरि
(c) कांठल
(d) अर्बुद

आधुनिक जिले

(i) सिरोही
(ii) प्रतापगढ़
(iii) जालौर
(iv) सीकर

कूट –

(A) a-(ii), b-(iii), c-(iv), d-(i)

(B) a-(iv), b-(iii), c-(ii), d-(i)

(C) a-(i), b-(ii), c-(iii), d-(iv)

(D) a-(iii), b-(iv), c-(ii), d-(i)

155. 1857 की क्रांति के समय धौलपुर का शासक था –

(A) कीरत सिंह **(B)** उदयभान सिंह

(C) भगवन्त सिंह **(D)** राम सिंह

156. 'हेला ख्याल' लोक संगीत राजस्थान के किस क्षेत्र से संबंधित है?

(A) दौसा – सवाई माधोपुर **(B)** भीलवाड़ा – अजमेर

(C) सीकर – झुन्झुनू **(D)** जोधपुर – बीकानेर

157. निम्नलिखित में से कौन राजपुताना चित्रकला के स्कूलों और उनकी शैलियों के अनुसार सही सुमेलित नहीं है?

(A) मेवाड़ स्कूल – नाथद्वारा और देवगढ़ शैलियाँ

(B) ढूंढार स्कूल – चावंड और उदयपुर शैलियाँ

(C) मारवाड़ स्कूल – किशनगढ़ और नागौर शैलियाँ

(D) हाड़ौती स्कूल – कोटा और बूंदी शैलियाँ

158. Which fort amongst the following is put in the category of 'Dhanwan Fort'?

(A) Mehrangarh fort (Jodhpur)

(B) Sonargarh fort (Jaisalmer)

(C) Gagron fort (Jhalawar)

(D) Chittorgarh fort

159. Match the following –

Handicraft

(1) Ajrakh print

(2) Jajam print

(3) Pichwai

(4) Dabu print

Place

(i) Nathdwara

(ii) Chittorgarh

(iii) Aakola

(iv) Barmer

Code -

(A) 1-(ii), 2-(iv), 3-(i), 4-(iii)

(B) 1-(iii), 2-(i), 3-(iv), 4-(ii)

(C) 1-(i), 2-(ii), 3-(iii), 4-(iv)

(D) 1-(iv), 2-(ii), 3-(i), 4-(iii)

160. In which year the Right to Hearing Act has come into force in Rajasthan?

(A) 2018 (B) 2012

(C) 2010 (D) 2014

158. अधोलिखित में से कौन–सा दुर्ग 'धान्वन दुर्ग' की श्रेणी में रखा जाता है?

(A) मेहरानगढ़ दुर्ग (जोधपुर)

(B) सोनारगढ़ (जैसलमेर)

(C) गागरोण दुर्ग (झालावाड़)

(D) चित्तौड़गढ़ दुर्ग

159. सुमेलित कीजिए –

हस्तशिल्प

(1) अजरक प्रिन्ट

(2) जाजम प्रिन्ट

(3) पिछवाई

(4) दाबू प्रिन्ट

स्थान

(i) नाथद्वारा

(ii) चित्तौड़गढ़

(iii) अकोला

(iv) बाड़मेर

कूट –

(A) 1-(ii), 2-(iv), 3-(i), 4-(iii)

(B) 1-(iii), 2-(i), 3-(iv), 4-(ii)

(C) 1-(i), 2-(ii), 3-(iii), 4-(iv)

(D) 1-(iv), 2-(ii), 3-(i), 4-(iii)

160. राजस्थान में सुनवाई का अधिकार अधिनियम किस वर्ष में लागू हुआ?

(A) 2018 (B) 2012

(C) 2010 (D) 2014